Prénom : …… Date : ……/……/……

Mathématiques

Tu as 29 bonbons. Vous êtes 7 à vous les partager.

Découpe les bonbons et répartis-les équitablement entre les 7 enfants.



29 = (……x……) + ……

Ecris maintenant la division correspondant au problème.

…… : …… = …… reste :……

↑ nombre de bonbons à partager

↑ nombre d'enfants

↑ nombre de bonbons par enfant

Imagine la même situation avec 34 bonbons à partager entre 8 enfants. (Tu peux dessiner.)
Combien de bonbons aura chaque enfant ?

Calcul 1 : 34 =……x……+……

Division : …… : …… = …… reste ……

Réponse : Chaque……